Леся ПРОХОРЕНКО
Віра ФЕСЕНКО

МАТЕМАТИКА

Навчальний посібник для осіб з особливими освітніми потребами (F 70)

1 КЛАС
частина 2



видавництво
АТЛАНТ

ЛЕСЯ ПРОХОРЕНКО
ВІРА ФЕСЕНКО

МАТЕМАТИКА

навчальний посібник для осіб з особливими освітніми потребами (F 70)

1 клас (у 2-х частинах)

Частина 2

Схвалено для використання в освітньому процесі



ВИДАВНИЦТВО АТЛАНТ
Київ 2024

УДК 51*кл1(075.2.056.313)

П87

Схвалено для використання в освітньому процесі

***(протокол від 22 березня 2024р. №3
засідання експертної комісії зі спеціальної педагогіки,
номер у Каталозі надання грифів навчальній літературі
та навчальним програмам 6.0011-2024)***

***Видано за рахунок державних коштів.
Продаж заборонено.***

П87

Прохоренко Л.І., Фесенко В.Г.
Математика: навчальний посібник для осіб
з особливими освітніми потребами (F 70) 1 клас
(у 2-х частинах), частина 2— Київ :
ТОВ «ВИДАВНИЦТВО АТЛАНТ», 2024. — 128 с: іл.

ISBN 978-617-8159-99-3

© Прохоренко Л.І., Фесенко В.Г., 2024
© ТОВ «ВИДАВНИЦТВО АТЛАНТ», 2024
оригінал-макет, художнє оформлення, 2024

ЧИСЛА 6, 7, 8. 9, 10. ВЕЛИЧИНИ. ЧИСЛО І ЦИФРА 6

1.



Хто знайшов колосок? Скільки казкових героїв зображено на малюнку?

2.



5



6

Число п’ять передує числу шість. Число шість позначають цифрою 6.

Назви числа від 1 до 5.

3.





5 і 1
6





3 і 3
6

Напиши в зошиті цифру 6.





4.

З якої казки ці герої? Скільки яблук в корзині у лисички?



1.



2.



6



6

3. Поклади 5 паличок. Додай ще 1.

Скільки стало паличок?

Поклади 5 олівців. Додай ще 1.

Скільки стало олівців?

4.

1	2	3	4	5	6		6	5	4	3	2	1

5. Склади з паличок будинок. Скільки потрібно взяти паличок?

6.

Поклади на 6 квадрат фішку.



Назви шосту геометричну фігуру.

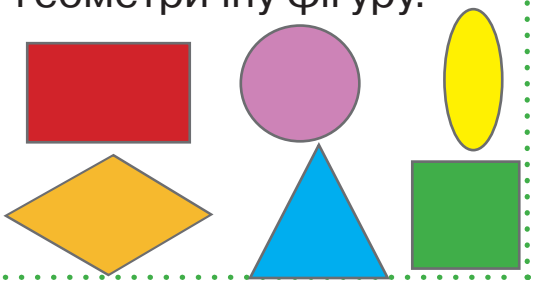

СКЛАД ЧИСЛА 6

1.



5 1

5 і 1 це 6

4 2

4 і 2 це 6

3 3

3 і 3 це 6

2.



5 і 1

6

3 і 3

6

3.



4 і 2
6



2 і 4
6

4.



1 □ 5



2 □ 4

Скільки дорослих і малих тварин у кожній групі?

Порівняй отримані числа.

1. Скільки стало паличок?

Поклади 4 круги. Додай ще 2.

Скільки стало кругів?

Поклади 3 олівці. Додай ще 3.

Скільки стало олівців?

2.



6 це 1 і 5



6 це 2 і 4



6 це 3 і 3

3.



6 це ☐ і ☐



6 це ☐ і ☐



6 це ☐ і ☐

Поклади фішки з потрібними числами.

4. У парі чисел назви менше.

6 і 6 5 і 2 6 і 4 4 і 5 5 і 5 3 і 4

5.



1 ☐ 3



2 ☐ 3

Порівняй числа.

6.



2 і 4

6

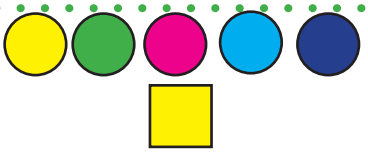

5 і 1

?

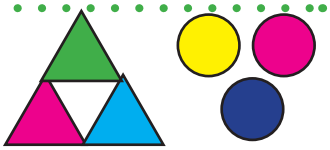

3 і 3

?

ПОРІВНЯННЯ ЧИСЕЛ У МЕЖАХ 6

1. Поклади 6 і 1 паличок. Порівняй.

Поклади 6 і 5 кругів. Порівняй.

Поклади 6 і 6 квадратів. Порівняй.

2. Полічи.



3. Порівняй.



4.



6 ☐ 3 2 ☐ 4

Поклади потрібний знак.

5. Порівняй.



Поклади на малюнок фішку з тим числом, яке відповідає кількості птахів, зображених на малюнку.

ЛІНІЇ: ПРЯМІ, ЛАМАНІ, КРИВІ. ТОЧКА

1. Як можна назвати лінії на малюнках?

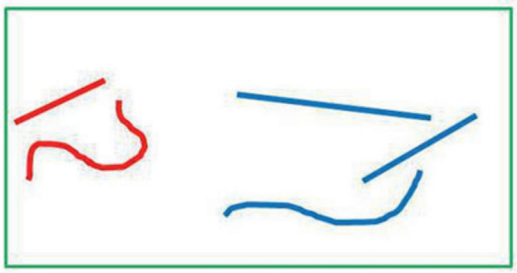







це — прямі лінії **це — криві лінії** **це — точка**

Пряма лінія — це лінія, яка продовжується в обидві сторони нескінченно.

Точка — це геометрична фігура. Щоб зобразити точку достатньо доторкнутися олівцем до паперу.

2. Розглянь геометричні фігури. Відшукай їх на малюнку



3. Конструкторські ігри: «Місто майстрів», «Будинки для гостей з іншої планети», «Виставка машин», «Палац для казкових героїв», «Мости» тощо.

4. Аплікація з паперу за зразком.



ТОЧКА, ПРЯМА, КРИВА, ВІДРІЗОК, ПРОМІНЬ, КУТ, ЛАМАНА (ЗАМКНЕНА, НЕЗАМКНЕНА)

1.



Ліворуч показано перетин прямих. Прямі перетинаються у точці.

Праворуч ще прямі, на одній з них дві точки.

Скільки точок на малюнку зліва? На прямій? Поза прямою?

2.



Праворуч – точка. Під точкою – пряма.

Дві точки, з'єднані частиною прямої – це відрізок.

Частина прямої, яка обмежена 1 точкою – це промінь.

3. Знайди зайву фігуру. Поясни.

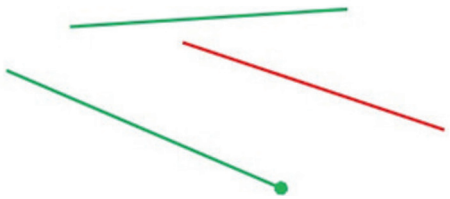

4. Розглянь лінії. Які ще є види ліній?



ламана лінія



замкнуті лінії



незамкнуті лінії

1. Склади вираз на додавання.



□ □ □

2.

1 + 2 = 2 + 2 = 3 + 2 = 3 + 3 =

3.



3 + 2 =

4.

4 + 2 = 6 2 + 4 = 6 5 + 1 = 6 3 + 3 = 6 1 + 5 = 6



2 + 2 + 2 = 6

ЧИСЛО І ЦИФРА 7. СКЛАД ЧИСЛА 7

1. Розглянь малюнок. Чим славиться Україна? Назви сім слів.



2.



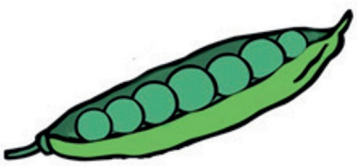

6 7

Число шість передує числу сім.
Число сім позначають цифрою 7.

Назви числа від 1 до 7.



4 3
7



5 2
7



6 1
7

Напиши в зошиті цифру 7.





3.






3 + 4 = 7 4 + 3 = 7

доданок доданок сума доданок доданок сума

Від переставляння доданків сума не змінюється.

4. Розв’яжи задачу.

Діти з батьками виготовляли годівнички для птахів. Дівчатка принесли 3 годівнички, а хлопчики — 4 годівнички. Скільки годівничок разом принесли діти?






1. Склади вираз за малюнком.



2 + 1 =

2. Полічи гномів. Полічи зайчиків.
Полічи бурундуків.
Скільки пташок? Косуль?



3.









4. Ігрові вправи на координування (координація своїх рухів і пересування в просторі згідно мовленнєвих інструкцій з 3-х і більше компонентів (три стрибки вперед на одній нозі, чотири кроки праворуч, двічі обернись навколо себе і присядь тощо).

1.



7 7 7

2. Поклади 6 паличок. Додай ще 1.

Скільки стало паличок?

Поклади 6 фішок. Додай ще 1.

Скільки стало фішок?

3.



4.

5 

6 

Поклади на малюнок фішку з тим числом, яке відповідає кількості предметів зображених на малюнку.

ПОРІВНЯННЯ ЧИСЕЛ У МЕЖАХ 7

1. Поклади 7 квадратів, а під ними ще 5. Порівняй.

Поклади 2 квадрати і 7 кругів. Порівняй.

Поклади 7 паличок і 7 паличок. Порівняй.

2.







3.





Поклади на малюнок фішку з відповідним числом.

4. У парі чисел назви більше.

3 і 7 7 і 5 1 і 7 7 і 4

5. Поклади фішку з відповідним знаком < чи > на кожну клітинку.

7 > 5	2 ☐ 7	7 ☐ 6	3 ☐ 7

1. Склади вираз на додавання.



3



1

2. Полічи трикутники. Полічи чотирикутники. Полічи круги.

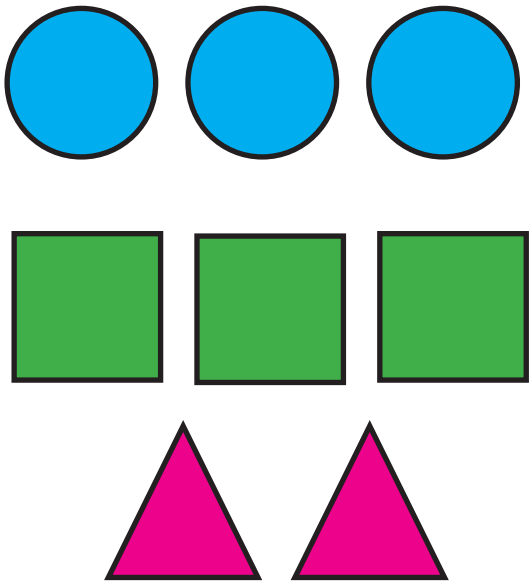

3. **Задача.** На годівниці було 3 пташки. До них прилетіла ще одна пташка. Скільки всього стало птахів на годівниці?



4.

5 + 2 =	4 + 3 =	1 + 6 =
7 – 1 =	6 – 1 =	4 – 3 =

ЧИСЛО І ЦИФРА 8

1. Поклади 7 паличок. Додай ще одну.

Скільки буде?

Поклади 8 кругів, а під ними 5 трикутників. Порівняй.

2.



3.



Полічи.

4.

1 2 3 4 5 6 7 8

1 ☐ 3 ☐ 5 ☐ 7 8

1.



7



8

Число сім передує числу вісім. Число вісім позначають цифрою 8.

Назви числа від 1 до 8.

8 це: 7 і 1 6 і 2 5 і 3 4 і 4

Напиши в зошиті цифру 8.





2. На які два числа можна розкласти число 7? Добери потрібні числа.

7 = 6 + ☐ 7 = 5 + ☐ 7 = 4 + ☐ 7 = 3 + ☐

3. Склади з паличок число 8.

4. Ігрові завдання на розвиток уваги, сприймання, спостережливості. Назви предмети.



1. Склади вираз на додавання.



4



4

2. Поклади фішку з відповідним числом на малюнок.





3.

7 + 1 = 6 + 1 = 5 + 1 =

4.

7 – 1 = 7 – 2 = 6 – 1 =

5. Полічи снігурів. Склади вираз на віднімання.



ПОРІВНЯННЯ ЧИСЕЛ У МЕЖАХ 8

1. Поклади 8 і 5 паличок. Порівняй.

Поклади 7 і 8 кругів. Порівняй.

Поклади 8 і 8 квадратів. Порівняй.

2. Прочитай числа від 1 до 8, від 8 до 1.

1 2 3 4 5 6 7 8

8 7 6 5 4 3 2 1

3. Порівняй.





8 ☐ 2





8 ☐ 3

4.

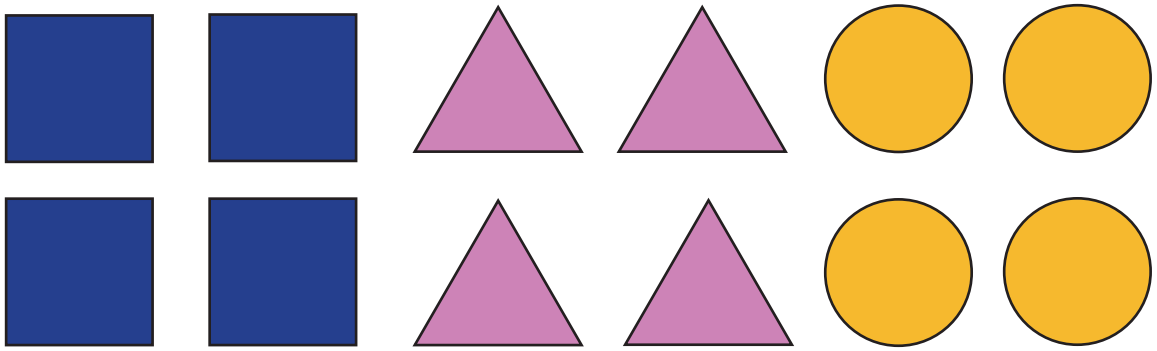

Назви фігури. Полічи фігури кожного виду.

Скільки трикутників? Кругів? Квадратів?

5. Поклади фішку з відповідним знаком < , > , = на кожну клітинку.

7 > 5	7 □ 8	8 □ 8	8 □ 4

1. Розглянь склад числа 8.



2. Яке число стоїть між 4 і 6; 6 і 8; 1 і 3; 5 і 7.

4 ☐ 6 6 ☐ 8 1 ☐ 3 5 ☐ 7

3. Обчисли вирази.

5 + 1	4 + 2	3 + 2	7 – 1
5 + 2	6 + 1	2 + 6	8 – 1
4 + 4	2 + 3	6 + 2	4 – 1

4. Практичне завдання на конструювання: відтворення споруди відповідно до зразка, визначення складу конструктивних деталей, особливостей їх форми, розміру і розташування (кубики, лего, дерев'яні фігури).



ЧИСЛО І ЦИФРА 9

1. Поклади 8 кругів, а під ними 4 квадрата. Порівняй.

Поклади 8 трикутників, а під ними 7 кругів.

Порівняй.

2. Поклади 8 паличок. Додай ще 1.

Скільки стало паличок?

Поклади 8 кругів. Додай ще 1.

Скільки стало кругів?

3. Полічи.



4.



Поклади фішку з відповідним числом.

5. Полічи кульки.





1. Полічи.



2. 1 2 3 4 5 6 7 8 9

1 ☐ 3 ☐ ☐ 6 ☐ ☐ 9

3. Полічи.



Поклади фішку з відповідним числом.

4.

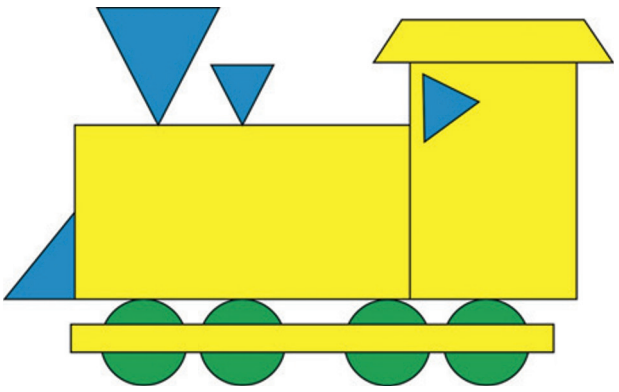

Полічи. Скільки прямокутників? Кругів? Трикутників?

5. Постав фішку з відповідним числом.



1. Порівняй.

8 > 7 6 < 8 8 > 5 4 < 8

3 < 8 2 < 8

7 ☐ 8 8 ☐ 6 5 ☐ 8 8 ☐ 4

8 ☐ 3 8 ☐ 2

Число вісім передує числу дев'ять.

Число дев'ять позначають цифрою 9.

Поклади 8 олівців. Додай ще 1. Скільки стало?

Поклади 7 кругів. Додай ще 2. Скільки стало?

Поклади 6 трикутників. Додай ще 3.

Скільки стало?

Поклади 5 квадратів. Додай ще 4.

Скільки стало?

2. Назви числа від 1 до 9.

Напиши в зошиті цифру 9.





3. Розглянь склад числа 9.



4. Практичне завдання у знаходженні предметів за словесним описом їх розташування в реальній ситуації. Виконання завдань учителя: помістити предмети у певне місце.

ПОРІВНЯННЯ ЧИСЕЛ У МЕЖАХ 9

1. Полічи.



2. Поклади 7 олівців і 9 кругів. Порівняй.

Поклади 9 квадратів і 5 кругів. Порівняй.

Поклади 9 олівців і 9 паличок. Порівняй.

3.

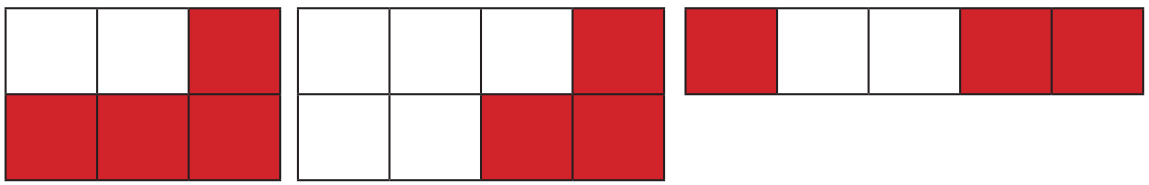

4.

1 2 3 4 5 6 7 8 9

9 ☐ 7 ☐ ☐ 4 ☐ ☐ 1

5. Порівняй числа: 9 і 1, 8 і 6, 5 і 3.

6. Поклади фішку з відповідним знаком < , > , = на кожну клітинку.

9 > 7	9 ☐ 9	8 ☐ 9	2 ☐ 4

1. Склади задачу за малюнком і розв'яжи її.



2. Обчисли вирази.

8 + 1 =	3 + 2 =	7 + 2 =	5 + 4 =
9 – 1=	9 – 2 =	9 – 3 =	9 – 4 =

3. Знайди прямокутник; квадрат.

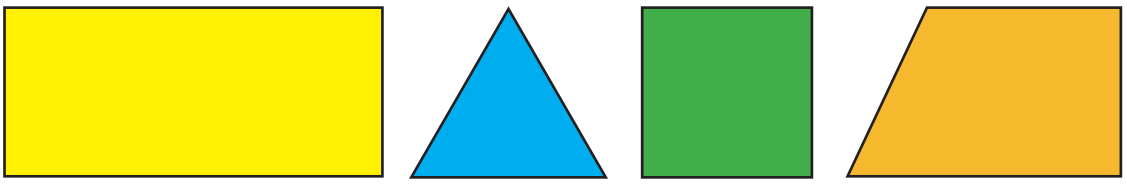

Накресли квадрат і прямокутник.

4. Полічи птахів. Склади вираз і обчисли.



5. Прочитай числа від 1 до 9, від 9 до 1.

1 2 3 4 5 6 7 8 9

9 8 7 6 5 4 3 2 1

ЧИСЛО 10

1. Поклади 9 паличок і ще 1.

Скільки стало паличок?

Поклади 9 кругів і ще 1

Скільки стало кругів?.

2. Полічи



3. Поклади 9 паличок. Додай ще 1. Скільки стало паличок?

Поклади 9 квадратів, Додай ще 1.

Скільки стало квадратів?

4.

1 2 3 4 5 6 7 8 9 9 8 7 6 5 4 3 2 1

5. Прочитай числа від 1 до 9, від 9 до 1.

1		3	4		6	7	8	9	
	9	8		6	5		3	2	1

Поклади фішку з відповідним числом у порожню клітинку.

6.



Поклади на малюнок фішку з відповідним числом.

---

1. Полічи цуценят.



2. Назви числа від 1 до 9. Запиши їх у зворотному порядку.

Число десять позначають двома цифрами 1 і 0.

Запиши число 10.



10

3. Знайди на малюнку цифри від 1 до 9. Знайди число 10. Запиши.



4. Практичні завдання: складання геометричних фігур із заданої кількості паличок; виготовлення аплікацій предметів, що складаються з однакових і відмінних геометричних фігур: *«Сніговик», «Кораблик», «Тролейбус».*

1. Полічи



2.







Полічи. Поклади фішку з відповідним числом.

3.

1 ☐ 3 ☐ 5 ☐ ☐ 8 ☐ 10

10 9 ☐ ☐ 6 5 ☐ ☐ 2 ☐

4. З яких геометричних фігур складено фігуру?

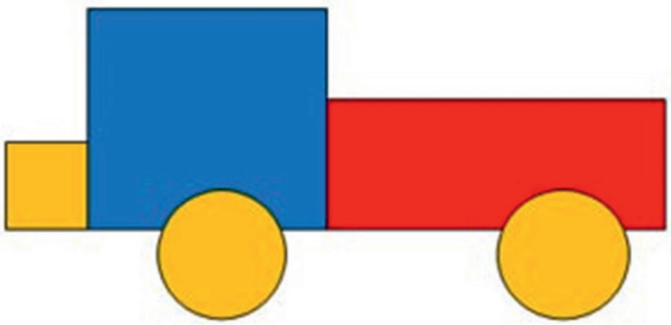

5.







Поклади на малюнок фішку з відповідним числом.

ПОРІВНЯННЯ ЧИСЕЛ У МЕЖАХ 10

1. Полічи.



2. Поклади 7 олівців і 3 олівця. Порівняй.

Поклади 6 паличок і 3 палички. Порівняй.

Поклади 5 кругів і 5 квадратів. Порівняй.

3. Порівняй.





4. Полічи від 1 до 10, від 10 до 1

5.



Порівняй числа.

6. Поклади фішку з відповідним знаком < , > , = на кожну клітинку.

10 > 9	9 ☐ 7	10 ☐ 10	8 ☐ 5

ЧИСЛОВИЙ РЯД

1. Прочитай числовий ряд.



Як отримати число 8?

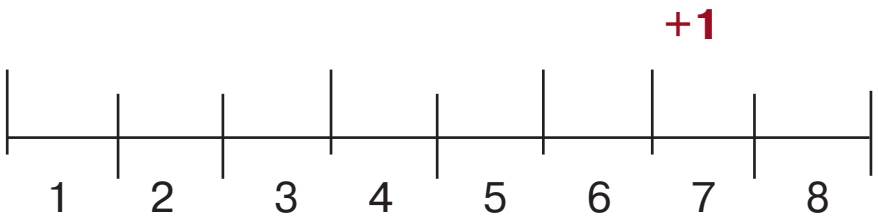

2. Одне число заблукало. Знайди його місце у числовому ряду.

2	3	4	1	5	6	7	8	9	10

3. Розглянь склад чисел 4, 5.





Поясни і запиши: 4 це ☐ і ☐; 5 це ☐ і ☐.

4. Розглянь склад чисел 6, 7.





Поясни і запиши: 6 це ☐ і ☐; 7 це ☐ і ☐

1. Склади приклади за зразком.

8 + 2 = 10 7 + 3 = 10

9 + 1 = 10 5 + 5 = 10

2 + 8 = 10 ☐ + ☐ = 10

☐ + ☐ = 10 ☐ + ☐ = 10

2. Розглянь склад чисел 8 і 9.





Поясни і запиши: 8 це ☐ і ☐; 9 це ☐ і ☐.

3. Які числа стоять між числами 4 і 6;

між числами 8 і 10;

між числами 1 і 3;

між числами 5 і 7.

4 ☐ 6 8 ☐ 10 1 ☐ 3 5 ☐ 7

4. Склади і розв'яжи задачі.





Разом – ?





Разом – ?

1. Полічи.



2. Полічи. Поклади фішку з відповідним числом.



3. Назви менше число у парі чисел.

1 і 10 5 і 6 7 і 7 3 і 9 2 і 8

4. Поклади 7 трикутників.

Поклади 4 круга.

Порівняй їх кількість.

5. Полічи.



1. Полічи.



2.

1 2 3 4 5 6 7 8 9 10 10 9 8 7 6 5 4 3 2 1

3.



Полічи. Поклади фішку з відповідним числом.

4. Знайди загублені числа.

□ □ 3 □ 5 □ □ 8 9 10

10 □ □ 7 □ 5 □ □ 2 □

5. Полічи. Поклади відповідне число на малюнок.



СПІВВІДНОШЕННЯ МІЖ ЧИСЛОМ І КІЛЬКІСТЮ ПРЕДМЕТІВ

1. Полічи.





Скільки хлопчиків? Скільки дівчаток?

Порівняй.

2. Знайди загублені числа.

1 2 ☐ ☐ 5 6 ☐ ☐ 9 ☐

☐ ☐ 3 4 ☐ ☐ 7 8 ☐ 10.

3.

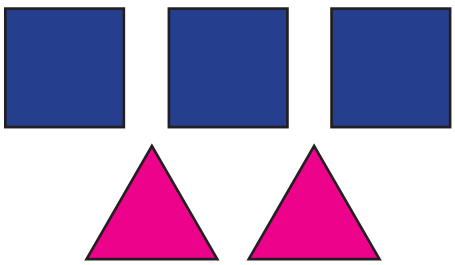

Полічи. Поклади фішку з відповідним числом.

4.



Хто лічив банани?

Хто лічив манго?

Хто лічив котів?

5. Полічи.



Полічи. Поклади на малюнок фішку з відповідним числом.

ПОРЯДКОВА ЛІЧБА ПРЕДМЕТІВ У МЕЖАХ 10

1.



Скільки звірів? Який по порядку ведмідь? Лисиця? Білка?

2.



Полічи. Скільки звірів? Який по порядку кіт? півень? дракон?

3.



Полічи. Скільки олівців. Який по порядку червоний олівець? Зелений? Синій? Блакитний? Жовтий?

4. Знайди загублені числа.

1 ☐ ☐ ☐ 5 ☐ ☐ 8 ☐ 10

10 9 ☐ ☐ ☐ ☐ 4 ☐ ☐ 1

1.

1 2 3 4 5 6 7 8 9 10

2.



Полічи. Яка по порядку червона кулька? Блакитна? Зелена? Помаранчева?

3.



Який по порядку олень? Заєць? Сова? Білка?

4.



Полічи. Поклади фішку з відповідним числом

5. Поклади фішку з відповідним знаком < , > , = на кожну клітинку.

5 < 9	10 ☐ 7	4 ☐ 4	2 ☐ 8

ВІДТВОРЕННЯ РЯДУ ЧИСЕЛ, ПОЧИНАЮЧИ З БУДЬ-ЯКОГО ЧИСЛА

1.



Полічи. Скільки рибок? Починай лічити від другої, четвертої, шостої рибки.

2.



Полічи. Скільки котів? Починай лічити від третього, п’ятого, сьомого котика. Який по порядку рудий кіт? Сірий? Білий? Чорно-білий?

3.



Скільки котиків? Який по порядку рудий котик? Чорний? Білий?

4.



Полічи. Який по порядку лимон? Слива? Полуниця? Груша?

ПОВТОРЕННЯ

1. Полічи.



2. Прочитай числа: 3, 5, 9, 8.

Поклади стільки ж паличок.

3.



Полічи. Поклади на картинку фішку з відповідним числом.

4.



Полічи. Скільки клубків? Починай лічити від третього, п’ятого, другого клубка.

5. Скільки клубків? Котиків?



6. Поклади фішку з відповідним знаком < , > , = на кожну клітинку.

9	<	10	10		5	3	3	4		7

ЧАСОВІ ПОНЯТТЯ

1. Коли сонце сходить — це ранок.

Коли сонце заходить — це …

Коли сонце на небі — це …

Коли на небі місяць – це …

2.



3. Коли це буває?



СЬОГОДНІ, ВЧОРА, ЗАВТРА. ДНІ ТИЖНЯ

1. Назви дні тижня. Який день тижня сьогодні?

У які дні тижня ти ходиш до школи?

У які дні тижня ти відпочиваєш?

2. Сьогодні вівторок. Назви попередній день.

Сьогодні субота. Назви наступний день.

Сьогодні неділя. Назви попередній і наступний день.

3.







4.









ДЕСЯТОК. ЛІЧБА ПРЕДМЕТІВ

1.

1 2 3 4 5 6 7 8 9 10

2.





Полічи.

3.



Полічи.

4. Полічи свійських тварин. Полічи птахів.



1. Скільки шарів у кожному ряду?
Який по порядку жовтий шар у кожному ряду?

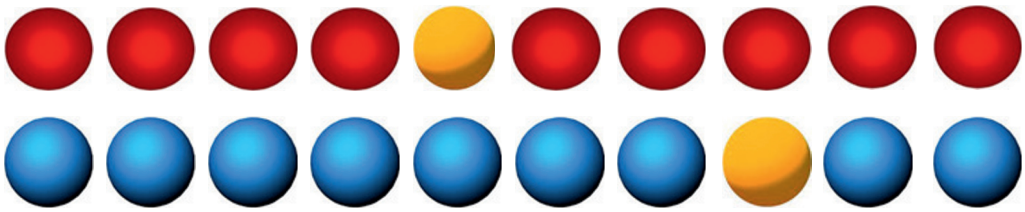

2.



Скільки звірят? Хто перший по порядку? Третій? Сьомий? Десятий?

Які по порядку зайчики? Лисички?

3.





Скільки овочів?

Скільки фруктів?

Який по порядку жовтий перець? Редиска? Томат?

Яка по порядку полуниця? Зелене яблуко? Вишні?

1. Полічи.



1 2 3 4 5 6 7 8 9 10

2.



Скільки кругів у кожному ряді?

Який по порядку блакитний круг, якщо лічити ліворуч?

Який по порядку червоний круг, якщо лічити праворуч?

3.



Скільки кухлів у першому ряді? Скільки кухлів у другому ряді?

Який по порядку зелений кухоль у першому ряді, якщо лічити праворуч?

Який по порядку зелений кухоль у другому ряді, якщо лічити ліворуч?

4. Числа 7, 9, 3, 10, 5. Розстав правильно числа, відповідно до кількості предметів на малюнку.



1.

1 2 3 4 5 6 7 8 9 10 10 9 8 7 6 5 4 3 2 1

2. Поклади 2 палички. Прилічи ще 1. Скільки паличок стало? Яке число паличок утворилося?

Поклади 6 паличок. Відлічи 1 паличку. Скільки паличок стало? Яке число паличок утворилося?

3. Яке число потрібно поставити перед числом 9? Перед числом 3? Після числа 3?

5 6 7 ☐ 9 1 ☐ 3 ☐

4. Яке число потрібно поставити між числами 8 і 10? Між числами 10 і 8? Між числами 2 і 4?

7 8 ☐ 10 ☐ 8 7 2 ☐ 4

5.



Яка по порядку гімнастка з м’ячем?

1. Полічи.



2. Назви попереднє число.

☐ 9 ☐ 5 ☐ 10 ☐ 2

3. Назви наступне число.

8 ☐ 5 ☐ 9 ☐ 1 ☐ 7 ☐

4. Назви попереднє і наступне число.

☐ 9 ☐ ☐ 8 ☐ ☐ 3 ☐

5.

☐ 7 ☐ 9 ☐ 8 ☐ ☐ 3 ☐.

6.



Знайди подібні листки? Якими вони є по порядку?

7.



Скільки лебедів було? Скільки стало?

СПІВВІДНОШЕННЯ МІЖ ЦИФРОЮ, ЧИСЛОМ І КІЛЬКІСТЮ

1. Полічи.









2.



Скільки курчат у кожної квочки? Скільки курчат стоять внизу? Скільки півнів?

3.



1 2 3 4 5 6 7 8 9 10

Яке число відповідає кожній кількості?

4.



Скільки мавпочок внизу? Скільки мавпочок вгорі?

5.

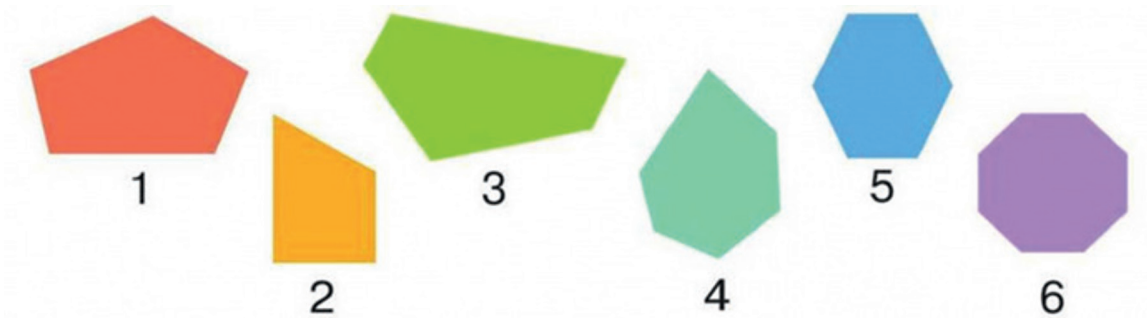

Якими числами позначені зелені фігури? Червона? Блакитна?

1. Прочитай числа від 1 до 10, від 10 до 1.

1 2 3 4 5 6 7 8 9 10

10 9 8 7 6 5 4 3 2 1

2. Полічи. Поклади фішку з відповідним числом.



3. Полічи. Поклади поряд фішку з відповідним числом.



4.

1	2			5		7		
	8				4		2	

Назви пропущені числа. Назви «сусідів» числа 5; числа 4; числа 8.

5.





Полічи бджілок. Порівняй числа кожної пари.

ПОРІВНЯННЯ ЧИСЕЛ В МЕЖАХ 10

1.



3



3

2.



3



7

3.



4 ☐ 2



2 ☐ 1

4. Порівняй числа в кожній парі. Назви менше число.

6 і 4 7 і 8 3 і 5 1 і 2 4 і 0

5.





Розлянь малюнок зліва. Скільки корів?

Розглянь малюнок справа. Що сталося? Скільки корів?

Порівняй групи корів на обох малюнках. Постав відповідне число на кожний малюнок. Порівняй отриману пару чисел.

1.

1 2 3 4 5 6 7 8 9 10 10 9 8 7 6 5 4 3 2 1

2.








2 ☐ 1 2 ☐ 2

3. Порівняй числа 3 і 4, 5 і 4, 6 і 6. Прочитай записи.

Менше	Більше	Дорівнює
3 < 4	5 > 4	6 = 6

4.






2 ☐ 3 3 ☐ 3

Назви у парі чисел більше число.

Порівняй числа.

Прочитай рівність 3 = 3.



5. Скільки всього олівців? Ручок? Гумок? Лінійок?

Чого найбільше? Чого найменше?

Порівняй числа 8 і 5; 2 і 3.

ПЕРЕСТАВЛЯННЯ ДОДАНКІВ

1.





3 + 2 = 5

доданок доданок сума

2.





2 + 3 = 5

доданок доданок сума

3.









1 + 3 = 4

3 + 1 = 4

4.




□ + □ = □




□ + □ = □

1.




1 + 6 = 7

2.



1 + 3 = 4



3 + 3 = 6

3.






1 + 3 = 4

3 + 1 = ☐

3 + 1 = 4

1 + 3 = ☐

4.



☐ + ☐ = ☐



☐ + ☐ = ☐

5.

2 + 1 = 3

5 + 1 = 6

4 + 1 = 5

3 + 1 = 4

1 + 2 = 3

1 + 5 = ☐

1 + 4 = ☐

1 + 3 = ☐

ЧИСЛА 1 – 10

1. Прочитай числа від 1 до 10, від 10 до 1.

1 2 3 4 5 6 7 8 9 10 10 9 8 7 6 5 4 3 2 1

2. Прочитай склад числа.

6	5	4
5 1	4 1	3 1
6	5	4
4 2	3 2	2 2

3. Обчисли вирази.

5 + 1	4 + 2	7 + 1	6 + 2
2 + 3	5 + 3	7 + 3	4 + 6
2 + 2	6 + 1	6 + 3	6 + 4

4. Склади і обчисли вирази.







□ + □ = □

□ + □ = □

5. Порівняй.

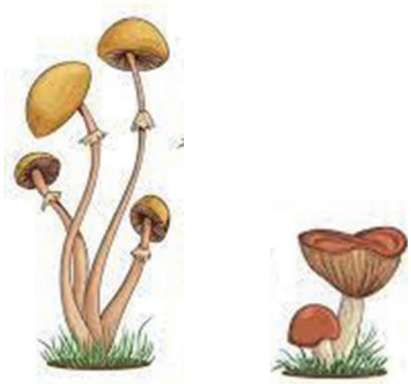

4 ☐ 2



3 ☐ 4



5 ☐ 4

6. Назви числа, менші від числа 7.

1 · 5 · 3 · 8 · 4 · 9 · 2 · 10 · 6

ПОВТОРЕННЯ

1. **Додавання**



2 + 3 = 5

Віднімання



7 – 3 = 4

2. Обчисли вирази.

7 + 1	5 + 3	6 + 3	10 – 1	7 – 1
6 + 3	2 + 1	5 + 5	4 – 1	9 – 1

3. Склади вирази за зразком.

5 + 4 = 9	7 + 1 = 8	3 + 1 = 4
4 + 5 = 9	□ + □ = 8	□ + □ = 4
8 + 2 = 10	4 + 1 = 5	5 + 2 = 7
□ + □ = 10	□ + □ = 5	□ + □ = 7

4. Склади вирази на віднімання.

10 – ☐ = ☐ 6 – ☐ = ☐ 9 – ☐ = ☐

7 – ☐ = ☐ 5 – ☐ = ☐ 4 – ☐ = ☐

ДОДАВАННЯ І ВІДНІМАННЯ В МЕЖАХ 10. ДОДАВАННЯ. НАЗВА ЧИСЕЛ ПРИ ДОДАВАННІ

1.



2 + 1 = 3

2 – доданок

1 – доданок

3 – сума

2. На ромашці збирають нектар 3 бджілки, до них підлітають ще 2.



3 + 2 = 5

Назви доданки і суму.

3.



□ + □ = □



□ + □ = □

Склади вирази на додавання.

Назви числа при додаванні.

4. Розв'яжи вирази.

5 + 3	7 + 2	1 + 9	1 + 1	9 + 1
2 + 1	6 + 2	4 + 4	5 + 3	2 + 8

5. Назви пропущені числа. Назви сусідів числа 5; числа 7; числа 4.

	2	3				7		9	



ДОДАВАННЯ

1. Поклади 3 палички. Додай ще 1.

Скільки стало паличок?

Поклади 5 олівців. Додай ще 2.

Скільки стало олівців?

2.

Доданок	9	3	6	7	4	6
Доданок	1	2	3	1	4	4
Сума	☐	☐	☐	☐	☐	10

3.



□ + □ = □



□ + □ = □

Доданок	□	Доданок	□
Доданок	□	Доданок	□
Сума	□	Сума	□

4. Знайди суму чисел.

1 і 2 2 і 3 5 і 3 6 і 1 7 і 3

5. Назви пропущені числа.

Назви сусідів числа 9; числа 2; числа 4; числа 8.

	2	3				7		9	

6. Порівняй числа.

9 > 7 10 □ 5 7 □ 7 4 □ 8 1 □ 9

ВІДНІМАННЯ.
НАЗВА ЧИСЕЛ ПРИ ВІДНІМАННІ

1.

4 - 1 = 3

4 – зменшуване

1 – від'ємник

3 – різниця







2.



4 - 2 = 2

4 – зменшуване

2 – від'ємник

2 – різниця

3.

3		2		3		7	
5 6 –	1	8 9 –	5	3 7 –	1	4 8 –	6
4		1		6		2	

4. Поклади 3 олівця. Відніми 1.
Скільки олівців залишилося?

Поклади 5 паличок. Відніми 4.
Скільки паличок залишилося?

5. Обчисли вирази на віднімання.

5 – 1 9 – 1

1 – 1 3 – 2

6. Порівняй числа.

7 > 3 9 ☐ 5 8 ☐ 7 4 ☐ 6 3 ☐ 2

ВІДНІМАННЯ

1.



5 – 1 = 4

Назви зменшуване, від'ємник, різницю.

2. Поклади 10 паличок. Відніми 2.
Скільки залишилося?

Поклади 7 кругів. Відніми 5.
Скільки залишилося?

Поклади 6 квадратів. Відніми 4.
Скільки залишилося?

3. Склади і обчисли вирази.



4 – 1 = ☐ 6 – ☐ = ☐

4.

Зменшуване – 4
Від'ємник – 2
Різниця – ?

4 – 2 = ☐

Зменшуване – 6
Від'ємник – 1
Різниця – ?

6 – 1 = ☐

5. Назви пропущені числа.

2 ☐ 4 8 ☐ 10 5 ☐ 7 1 ☐ 3

ДОДАВАННЯ. ВІДНІМАННЯ

1.

Дія додавання

5 + 2 = 7

доданок доданок сума

Дія віднімання

7 – 5 = 2

зменшуване від'ємник різниця

2.



3 + 1 = 4

Скільки було цуценят?

Скільки стало ?

4 – 1 = 3

Скільки було цуценят?

Скільки залишилося?

3. Прочитай приклади. Назви зменшуване, від'ємник, різницю.

9 – 7 = 2

5 – 2 = 5

10 – 5 = 5

4 – 2 = 2

4. Прочитай приклади. Назви перший доданок, другий доданок, суму.

3 + 4 = 7　　5 + 5 = 10

6 + 2 = 8　　3 + 2 = 5

5. Знайди різницю чисел.　　Знайди суму чисел.

5 – 2　　8 – 5　　4 + 2　　6 + 4

7 – 6　　6 – 2　　4 + 5　　8 + 1



ЗВ'ЯЗОК ДОДАВАННЯ І ВІДНІМАННЯ

1.

4 + 3 = 7　　7 – 3 = 4　　7 – 4 = 3

3 + 5 = 8　　8 – 3 = □　　8 – 5 = □

2. Скільки буде якщо:

у зайчика було 5 морквин, він зірвав ще 2	5 + 2 = □
у зайчика було 7 морквин, він віддав 4 білочці	7 – □ = □
у зайчика було 7 морквин, він віддав 3	□ – □ = □

3.



4 + 1 = 5 5 – □ = 4

5 - 1 = □

4. Склади і обчисли вирази за зразком.

7 + 3 = 10	2 + 4 = 6	4 + 5 = 9
10 – 3 = 7	6 – □ = 2	9 – □ = 4
10 – 7 = 3	6 – □ = 4	9 – □ = 5

5. Порівняй числа.

2 □ 1 5 □ 5 7 □ 9 6 □ 10 4 □ 7

6. Знайди для кожного песика кісточку.



1.

Дія додавання

8 + 2 = 10

доданок доданок сума

Дія віднімання

7 – 3 = 4

зменшуване від'ємник різниця

2.





4 + 2 = 6

7 – 5 = 2

Як називаються числа при додаванні?

Як називаються числа при відніманні?

3.

Доданок	8	7	6	5	4
Доданок	1	2	3	4	5
Сума	9	☐	☐	☐	☐

Зменшуване	9	9	9	9	9
Від'ємник	1	☐	☐	☐	☐
Різниця	8	7	6	5	4

4. Склади за зразком.

5 + 1 = 6	7 + 2 = 9	2 + 6 = 8
6 – 1 = 5	□ – □ = 7	□ – □ = 6
6 – 5 = 1	□ – □ = 2	□ – □ = 2

5. Скільки дітей? Порівняй кількість хлопчиків і кількість дівчаток.



ДОДАТИ, ВІДНЯТИ 0

1.





2 + 0 = 2

5 + 0 = 5

2.



6 – 6 = 0

3.

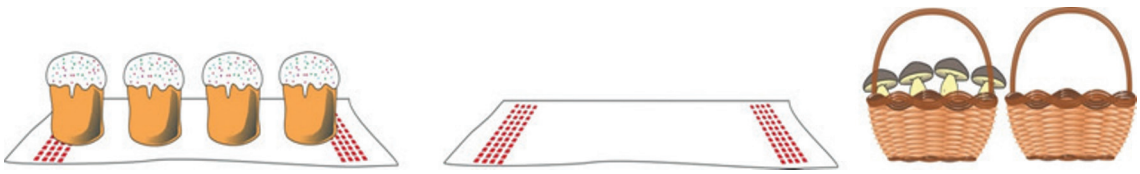

4. Зроби за зразком.

1 + 2 = 3 8 + 2 = 10 5 + 2 = 7 4 + 3 = 7

2 + 1 = 3 □ + □ = 10 7 – □ = 2 7 – □ = 4

5. Обчисли вирази.

5 + 0	0 + 7	6 – 0	2 + 0	3 – 0
9 + 0	0 + 3	4 – 0	2 – 2	3 – 3

ДОДАТИ, ВІДНЯТИ 1

1. Поклади 3 палички. Додай ще 1.

Скільки стало паличок? Стало більше чи менше? Чому?

2.

1 + 1 = 2	2 – 1 = 1
2 + 1 = 3	3 – 1 = 2
3 + 1 = 4	4 – 1 = 3
4 + 1 = 5	5 – 1 = 4
5 + 1 = 6	6 – 1 = 5
6 + 1 = 7	7 – 1 = 6
7 + 1 = 8	8 – 1 = 7
8 + 1 = 9	9 – 1 = 8
9 + 1 = 10	10 – 1 = 9

3. Назви сусідів числа 4; числа 7; числа 3; числа 9.

☐ 4 ☐ ☐ 7 ☐ ☐ 3 ☐ ☐ 9 ☐.

4. Назви попереднє число.

☐ 5 ☐ 7 ☐ 10 ☐ 3 ☐ 9

Назви наступне число.

6 ☐ 9 ☐ 7 ☐ 4 ☐ 8 ☐

5.



□ – □ = □



□ + □ = □

Склади вирази з отриманих чисел. Обчисли.

1.

1 2 3 4 5 6 7 8 9 10

2.



□ + □ = □



□ – □ = □

3. Обчисли вирази.

5 + 1 = ☐ 6 – 1 = ☐ 4 + 1 = ☐ 8 – 1 = ☐

4. Склади і обчисли вирази.



☐ + ☐ = ☐ ☐ – ☐ = ☐

5. Обчисли вирази.

4 + 1	7 – 1	5 + 1	10 – 1
4 – 0	3 – 1	8 + 1	9 – 0
4 – 1	5 – 1	3 + 0	1 – 1

6. Допоможи Олегу і Катрусі обчислити вирази.



4 – 1 = 5 + 1 = 6 + 0 = 8 – 0 =

ДОДАТИ, ВІДНЯТИ 2

1.

1 + 2 = 3	3 – 2 = 1
2 + 2 = 4	4 – 2 = 2
3 + 2 = 5	5 – 2 = 3
4 + 2 = 6	6 – 2 = 4
5 + 2 = 7	7 – 2 = 5
6 + 2 = 8	8 – 2 = 6
7 + 2 = 9	9 – 2 = 7
8 + 2 = 10	10 – 2 = 8

2.



10 – ☐ = ☐



6 + ☐ = ☐

3. Склади і обчисли вирази.

4 + 2 = ☐	8 + 2 = ☐	☐ – 2 = ☐
4 – 2 = ☐	5 – 2 = ☐	☐ – 8 = ☐

4. Обчисли вирази.

1 + 2	5 + 2	7 – 2	10 – 2	2 – 2
2 + 1	2 + 5	3 – 2	8 – 2	2 – 0

1. До кожного з вказаних чисел додай 2.

1 2 3 4 5 6 7 8 0 +2

2. Від кожного з вказаних чисел відніми 2.

2 3 4 5 6 7 8 9 10 – 2

3. Обчисли вирази.

5 + 3	4 – 2	0 + 2	2 – 2
6 + 2	7 – 2	2 + 0	3 – 2
5 + 2	10 – 2	3 + 2	6 – 2
4 + 2	5 – 2	7 + 2	9 – 2

4.





□ + □ = □

5. Назви «сусідів» чисел.

3 4 5 6 □ □ 9 □ □ 8 □ □ 7 □

6. Склади і обчисли вирази.

3 + □ = 5 10 – □ = 8

2 + □ = 4 5 – □ = 3

1. Обчисли вирази.

3 + 1	7 – 1	5 + 2	2 – 1
2 + 2	7 – 2	6 + 2	1 – 1
3 + 2	6 – 2	7 + 2	5 – 2
0 + 1	5 – 1	1 + 2	9 – 2

2.





3 ☐ 2 = 5 5 ☐ 1 = 4

Добери дію.

3. Обчисли вирази.

4 + 1 = ☐	6 + 2 = ☐	9 + 1 = ☐	4 + 2 = ☐
1 + 4 = ☐	2 + 6 = ☐	1 + 9 = ☐	2 + 4 = ☐

4. Обчисли вирази за зразком.

4 + 3 = 7	9 + 1 = ☐	5 + 2 = 7
7 – 3 = 4	☐ – ☐ = 9	☐ – ☐ = 5
7 – 4 = 3	☐ – ☐ = 1	☐ – ☐ = 2

5. Порівняй.

2 і 3 7 і 2 10 і 1 6 і 2 1 і 1 2 і 2

ДОДАТИ, ВІДНЯТИ 3

1.

1 + 3 = 4	4 – 3 = 1
2 + 3 = 5	5 – 3 = 2
3 + 3 = 6	6 – 3 = 3
4 + 3 = 7	7 – 3 = 4
5 + 3 = 8	8 – 3 = 5
6 + 3 = 9	9 – 3 = 6
7 + 3 = 10	10 – 3 = 7

2. Склади і обчисли вирази.

□ + □ = 7	5 – □ = 1
□ + □ = 9	5 – □ = 2

3.





2 □ 3 = 5

9 □ 3 = 6

Добери дію.

4.

3 + 2	2 – 2	3 + 0	1 – 0
2 + 1	1 + 2	3 + 1	0 + 3

5. Склади і обчисли вирази.









6 – ☐ = ☐ ☐ – ☐ = ☐

6. У парі чисел назви менше число.

4 і 6 9 і 8 7 і 2 2 і 1 4 і 4 5 і 3

1. Прочитай числа від 1 до 10.

1 2 3 4 5 6 7 8 9 10

2.

1 2 3 4 5 6 7 + 3

3.

3 4 5 6 7 8 9 10 – 3

4.

Доданок	5	4	7	6
Доданок	3	3	3	3
Сума	☐	☐	☐	☐

Зменшуване	7	5	9	10
Від'ємник	3	3	3	3
Різниця	☐	☐	☐	☐

5.

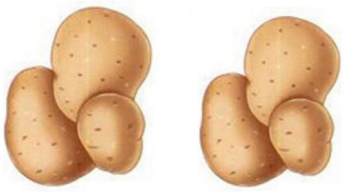



☐ + ☐ = 6 ☐ – ☐ = 6

Склади і обчисли вирази.

6. Добери дію.

6 ☐ 3 = 9 4 ☐ 3 = 7 10 ☐ 5 = 5 3 ☐ 0 = 3

9 ☐ 2 = 7 6 ☐ 1 = 7 7 ☐ 2 = 5 0 ☐ 3 = 3

7. Обчисли вирази.

8 – 3	7 + 3	9 – 1	8 + 2	4 + 0
4 – 3	5 + 3	7 – 2	9 + 1	10 – 0

ДОДАТИ, ВІДНЯТИ 1, 2, 3

1.

9 4 6	– 1
8 5 3	+ 1
1 7 2	– 1

2. Обчисли вирази.

6 + 3	0 + 3	7 – 2	1 + 2	3 – 1
3 + 3	5 + 2	6 – 3	8 + 1	4 – 2

3.

3 +	7 3 5 6 4
4 2 5 7 1	– 3

4. Скільки було ялинок? Скільки залишилося? Склади і обчисли вираз.



□ – □ = □

5. Обчисли вирази.

5 + 1	7 – 2	6 – 2	0 + 3
9 – 3	4 – 2	5 + 3	9 – 1

6. Склади і розв’яжи задачу.



□ + □ = □

ДОДАТИ, ВІДНЯТИ 4

1.

1 + 4 = 5	5 – 4 = 1
2 + 4 = 6	6 – 4 = 2
3 + 4 = 7	7 – 4 = 3
4 + 4 = 8	8 – 4 = 4
5 + 4 = 9	9 – 4 = 5
6 + 4 = 10	10 – 4 = 6

2.

1 + 4	5 + 4	4 + 4	7 – 4
2 + 4	9 – 4	8 – 4	10 – 4
4 – 4	6 – 4	3 + 4	6 + 4

3. Склади і обчисли вирази.





2 □ 4 = 6

6 □ 2 = 4

4.

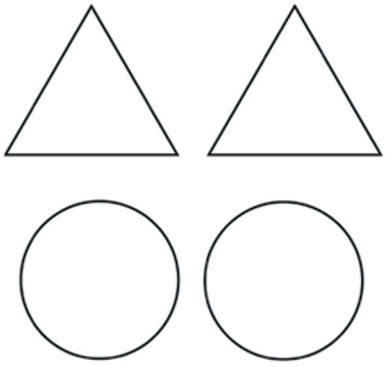

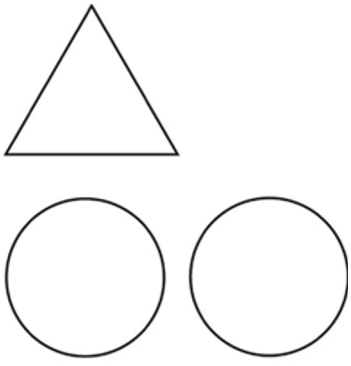

2 □ 2

1 □ 2

Полічи скільки кругів, трикутників. Порівняй числа у кожній групі.

1.

Доданок	1	6	3	4
Доданок	4	4	4	4
Сума	□	□	□	□

Зменшуване	5	9	10	4
Від'ємник	4	4	4	4
Різниця	□	□	□	□

2.

4			4			4		2
3		1	2		2	1	3	1	1

3. Обчисли вирази.

1 + 4	3 + 2	10 – 6	9 – 3
4 + 1	1 + 3	8 – 6	3 – 2
4 + 4	6 + 1	7 – 4	10 – 4

4. Склади і розв'яжи задачу за малюнком.



6 □ 4 = 10

5. Склади і обчисли вирази за зразком.

6 + 4 = 10	5 + 1 = 6	2 + 4 = 6
10 – 4 = 6	□ – □ = 5	□ – □ = 4
10 – 6 = 4	□ – □ = 1	□ – □ = 2

6. На скільки фруктів менше, ніж овочів?





ДОДАТИ, ВІДНЯТИ 5

1.

1 + 5 = 6	6 – 5 = 1
2 + 5 = 7	7 – 5 = 2
3 + 5 = 8	8 – 5 = 3
4 + 5 = 9	9 – 5 = 4
5 + 5 = 10	10 – 5 = 5

2.

5	2	2	10	6
+ 5		+ 0		– 5
3	4	8	10	5	7

3.

Було 

Купили 

Стало ?

4.

4 + 5

3 + 5 10 – 5

2 + 5 8 – 5

1 + 5 5 – 5

5. Склади вирази на склад числа 5.

5 = 4 + ☐ 5 = 3 + ☐

5 = ☐ + ☐ 5 = ☐ + ☐

6. Порівняй числа.

5 ☐ 2 7 ☐ 5 5 ☐ 3 9 ☐ 5 5 ☐ 5

1. 1 2 3 4 5 +5

10 9 8 7 6 5 –5

2.

5 + 1 = ☐	10 – 5 = ☐	0 + 5 = ☐
5 + 2 = ☐	9 – 5 = ☐	5 + 0 = ☐
5 + 3 = ☐	8 – 5 = ☐	5 – 5 = ☐
5 + 4 = ☐	7 – 5 = ☐	5 – 0 = ☐

3. Склади і розв'яжи задачі.

У Миколи було 10 марок

Роздав – 5 марок

Залишилося – ?



Разом ?



4.

☐ + 5 = 6	☐ + 5 = 5	7 – 5 = ☐	6 – 5 = ☐
☐ + 5 = 8	☐ + 5 = 9	9 – 5 = ☐	10 – 5 = ☐
☐ + 5 = 7	☐ + 5 = 10	5 – 5 = ☐	5 – 0 = ☐

5. Що не так?





ДОДАТИ, ВІДНЯТИ 4, 5

1.

5	2	3	0	6	4	+ 4
4	8	6	9	10	7	– 4

2. Склади і розв’яжи задачу.



Було – ? Купили Стало – ?

3.

1 + 5	7 + 3	10 – 5	10 – 3
5 + 4	6 + 2	10 – 2	10 – 1
3 + 4	7 + 3	10 – 4	10 – 0

4.



□ – □ = 4

5. Порівняй.

8 і 5 6 і 4 8 і 3 1 і 2 9 і 5 3 і 4

6. На які два числа можна розкласти число 5; число 4. Добери потрібні числа.

5 = 2 і ☐ 5 = 4 і ☐ 4 = 3 і ☐ 4 = 2 і ☐

5 = 3 і ☐ 5 = 1 і ☐ 4 = 1 і ☐ 4 = 2 і ☐



ДОДАТИ, ВІДНЯТИ 6. ДОДАТИ, ВІДНЯТИ 7

1.

1 + 6 = 7	7 – 6 = 1
2 + 6 = 8	8 – 6 = 2
3 + 6 = 9	9 – 6 = 3
4 + 6 = 10	10 – 6 = 4

2.

1 + 7 = 8	8 – 7 = 1
2 + 7 = 9	9 – 7 = 2
3 + 7 = 10	10 – 7 = 3

3.

4	2	3	+6
9	10	8	– 6
3	2	1	+ 7
10	8	9	– 7

4.





□ + □ = □ □ - □ = □

5. Що не так?



ДОДАТИ, ВІДНЯТИ 8. ДОДАТИ, ВІДНЯТИ 9

1.

1 + 8 = 9 9 – 8 = 1

2 + 8 = 10 10 – 8 = 2

1 + 9 = 10 10 – 9 = 1

2.

1 + 8	2 + 8	1 + 9	10 – 8	9 – 0
8 + 1	8 + 2	9 + 1	10 – 9	0 + 8

3.

2 + 8 = 10	1 + 8 = 9	1 + 9 = 10
10 – □ = 8	9 – □ = 8	10 – □ = 9
10 – □ = 2	9 – □ = 1	10 – □ = 1

4.



□ + □ = □ □ - □ = □

5. Знайди усі предмети схожі за формою на трикутник, квадрат, прямокутник.



1. Добери потрібне число.

□ + 1 = 7 □ – 1 = 7

2. Поклади 5 олівців. Поклади ще 1.

Скільки олівців стало – більше чи менше? Чому?

Поклади 4 палички. Забери 1. Скільки паличок стало – більше чи менше?

Чому?

3.

8	8	9	9
7 + 1	9 – 1	8 + 1	10 – 1

4.

1 + 8 = 9 2 + 8 = 10 1 + 9 = □

□ + □ = 9 □ + □ = 10 □ + □ = □

5.



□ + □ = 6

6. Порівняй числа.

8 ☐ 10 5 ☐ 10 9 ☐ 8 7 ☐ 1 6 ☐ 6

7.









7 ☐ 1 = 8 8 ☐ 2 = 6

Добери дію.

---

1. Назви пропущені числа.

1 2 3 ☐ ☐ 6 ☐ ☐ ☐ 10

10 9 8 ☐ ☐ 5 4 ☐ ☐ ☐

2. Добери потрібне число.

10 = ☐ + 2 10 = 6 + ☐

10 = ☐ + 5 10 = 7 + ☐

3.

4 + 6	2 + 2	10 – 7	8 – 6
5 + 5	6 + 1	10 – 3	6 – 6
8 + 1	5 + 4	10 – 1	4 – 2

4.




□ – □ = □



□ + □ = □

5. Назви «сусідів» числа.

□ 7 □ □ 9 □ □ 3 □

6. Обчисли вирази.

6 + 2	7 + 2	6 – 4	8 – 1	5 + 3
4 + 1	5 – 2	2 + 2	10 – 1	5 + 5

7.



□ – □ = □

ПОВТОРЕННЯ

1. Прочитай числа від 1 до 10, від 10 до 1.

1 2 3 4 5 6 7 8 9 10 10 9 8 7 6 5 4 3 2 1

2. Полічи.



3. Покажи у підручнику верхній лівий куток, верхній правий куток, нижні – лівий і правий кутки.

4.

□ 3 □ 6 8 □ 9

□ 8 □ 5 □ 7 □ 2 □

5.



4 + 2 = □



6 – 3 = □

ПОРІВНЯННЯ ГРУП ПРЕДМЕТІВ

1.



2.



3.



4.

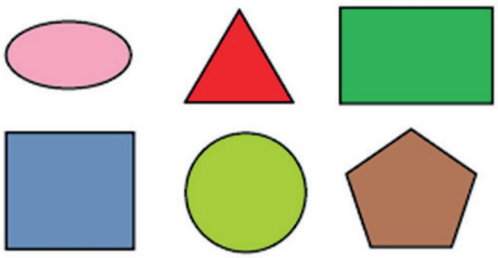

1. Поклади 4 палички і 6 паличок.

Зрівняй їх кількість збільшенням кількості паличок.

Поклади 3 квадрата і 7 квадратів.

Зрівняй їх кількість зменшенням кількості квадратів.

Поклади 2 олівця і 8 олівців.

Зрівняй їх кількість зменшенням і збільшенням кількості олівців.

2.



Чого більше? Чого менше?

3. У парі чисел назви більше.

10 і 7 6 і 3 3 і 1 2 і 7

У парі чисел назви менше.

4 і 8 10 і 9 0 і 6 6 і 1

4. Порівняй числа.

7 > 4 6 ☐ 5 2 ☐ 2 1 ☐ 4 5 ☐ 4

4 ☐ 9 7 ☐ 9 3 ☐ 1 8 ☐ 8 9 ☐ 7

5.



6 □ 7

ЛІЧБА ПРЕДМЕТІВ

1. Прочитай числа від 1 до 10, від 10 до 1.

1 2 3 4 5 6 7 8 9 10 10 9 8 7 6 5 4 3 2 1

2. Полічи. Котрий по порядку вовк? Білочка? Заєць?



3.

1	2		4	5		7	8		10

Назви пропущені числа. Назви «сусідів» числа 5; числа 9. Яке число передує числу 7? Яке наступне за ним?

4. За малюнками склади два приклади на додавання.



5.

7 – 5	5 – 2	5 + 5	4 + 5
9 – 3	9 – 6	7 + 3	2 + 2
10 – 3	7 – 0	3 + 0	1 + 1

6. На які два числа можна розкласти число 7. Добери числа.

7 = 6 + ☐ 7 = 5 + ☐ 7 = ☐ + ☐

1.

5	+	3	=	8	6	+	2	= 9
доданок		**доданок**		**сума**	?		?	?

2.

Доданок	4	3	7		Доданок	7	5	9
Доданок	6	4	1		Доданок	3	2	1
Сума	☐	☐	☐		Сума	☐	☐	☐

3.

3 + 1 = 4	2 + 7 = ☐	6 + 4 = ☐	2 + 5 = ☐
1 + 3 = 4	☐ + ☐ = ☐	☐ + ☐ = ☐	☐ + ☐ = ☐

4.

9 = 8 + 1	8 = 7 + 1	7 = 6 + 1
9 = 7 + ☐	8 = 6 + ☐	7 = 5 + ☐
9 = 6 + ☐	8 = 5 + ☐	7 = 4 + ☐
9 = 5 + ☐	8 = 4 + ☐	7 = 3 + ☐

5.

Оля 

Галинка 

Разом — ?

Було 

Подарував 

Залишилось — ?

6. Обчисли вирази.

4 + 5	7 + 3	1 + 9	0 + 3
0 + 6	8 + 2	6 + 4	3 + 0

1.

10 – 4 = 6

зменшуване від'ємник різниця

2. Назви зменшуване, назви від'ємник, назви різницю.

5 – 2 = 3 7 – 3 = 4 9 – 1 = 8

3.

9 – 4	10 – 5	8 – 3	2 – 2
9 – 6	10 – 4	3 – 0	6 – 6

4.

Зменшуване	7	6	5		Зменшуване	8	10	4
Від'ємник	3	4	3		Від'ємник	2	5	1
Різниця	☐	☐	☐		Різниця	☐	☐	☐

5. Склади і розв'яжи задачу за малюнком.






☐ – ☐ = ☐

6.

7 + 2 = 9	5 + 3 = 8	2 + 8 = 10
9 – 2 = 7	□ – □ = 3	□ – □ = 2
9 – 7 = 2	□ – □ = 5	□ – □ = 8

7. Порівняй числа.

5 □ 6 4 □ 3 8 □ 2 1 □ 1 10 □ 9

1. З яких геометричних фігур складені предмети.



2. На які геометричні фігури схожі предмети?

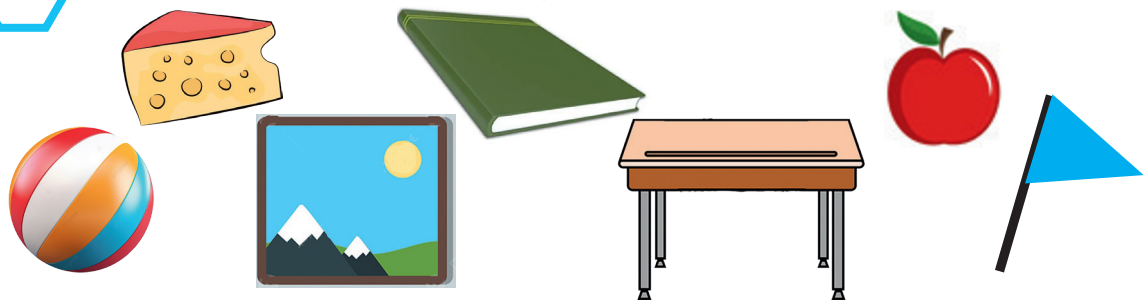

3. Коли це буває?



4. Було – 7 

Поїхало – 3 

Залишилося – ?

5.

2 + 0	7 – 1	3 + 1	3 + 6	10 – 5
0 + 1	7 – 7	1 + 3	9 – 3	10 – 0

ЗМІСТ

Числа 6, 7, 8, 9, 10. Величини
Цифра і цифра 6 3
Склад числа 6 6
Порівняння чисел у межах 6 9
Лінії: прямі, ламані, криві, точка 10
Точка, пряма, крива, відрізок
промінь, кут, ламана (замкнена
незамкнена) 11
Число і цифра 7. Склад числа 7 14
Порівняння чисел у межах 7 18
Число і цифра 8. Склад числа 8 21
Порівняння чисел у межах 8 25
Число і цифра 9 28
Порівняння чисел у межах 9 33
Число 10 36
Порівняння чисел у межах 10 41
Числовий ряд 43
Співвідношення між числом і кількістю
іпредметів 49
Порядкова лічба предметів у межах 10 51
Відтворення ряду чисел, посинаючи
з будь-якого числа 53
Повторення 56
Часові поняття 57
Сьогодні, вчора, завтра, дні тижня 58

Десяток. Лічба предметів 60
Співвідношення між цифрою, числом і кількістю .. 67
Переставляння доданків 75
Числа 1–10 78
Повторення 80
Додавання і віднімаггя у межах 10. Додавання
Назва чисел при додаванні 81
Додавання 83
Віднімання. Назва чисел при відніманні 86
Додавання. Віднімання 88
Зв'язок додавання і віднімання 89
Додати, відняти 0 92
Додати, відняти 1 94
Додати, відняти 2 97
Додати, відняти 3 100
Додати, відняти 1,2,3 103
Додати, відняти 4 104
Додати, відняти 5 107
Додати, відняти 4,5 110
Додати, відняти 6. Додати, відняти 7 111
Додати, відняти 8. Додати, відняти 9 112
Повторення 117
Порівняння груп предметів 118
Лічба предметів 120

НАВЧАЛЬНЕ ВИДАННЯ

ЛЕСЯ ПРОХОРЕНКО

ВІРА ФЕСЕНКО

МАТЕМАТИКА

Навчальний посібник для осіб
з особливими освітніми потребами (F70)

1 клас (у 2-х частинах)

Частина 2

Схвалено для використання в освітньому процесі

**Видано за рахунок державних коштів.
Продаж заборонено.**

Навчальний посібник відповідає Державним
санітарним нормам і правилам
«Гігієнічні вимоги до друкованої продукції для дітей»

Відповідальний редактор О. Литвин
Редактор О.Горлачов
Макет обкладинки Н.Москаленко
Комп'ютерна верстка Н.Булавінцева

Формат 84x108/16. Папір офсетний. Гарнітура Arial
Друк офсетний. Ум. друк.арк. 13,44 Обл.-вид.арк. 9,10
Наклад 8 910 прим.
Зам.№ 24-07-3114

В оформленні навчального посібника використано деякі світлини з
вільних джерел мережі «Інтернет» та матеріали фотобанку
Shatterstock Бренди та ресурси зображуються лише з освітньою метою
та не є закликом до їх купівлі/відвідування

ТОВ «ВИДАВНИЦТВО АТЛАНТ»
Свідоцтво суб'єкта видавничої справи ДК № 7928 від 08.09.2023
Адреса редакції: 02095, м.Київ, вул. Княжий затон, 9а, офіс369
E-mail: atlant_publishing@ukr.net

Віддруковано у ТОВ «ПЕТ», вул. Максиміліанівська,17, м Харків, 61024
Свідоцтво суб'єкта видавничої справи ДК № 6847 від 19.07.2019р.

